ESCOLA CANTINHO MÁGICO

Nível: 3º ano

1º bimestre

Data: ____/____/20

Exercícios de Matemática - 1º bimestre

1-Observe as crianças.

a) Escreva os nomes dos sólidos que se encontram em cima da mesa:

_____

_____

_____

b) Quais desses sólidos rolam?

_____

_____

c) Quantas faces tem o prisma de base pentagonal? Circule de verde esta figura.

d) O que é um prisma hexagonal?

_____

_____

- Desenhe-o.

2- No quadro a seguir, aparecem representações de sólidos geométricos. Quais das figuras acima representam:



a) cilindros? _____

b) pirâmides? _____

c) cones? _____

d) prismas? _____

e) Quais rolam? _____

3- Veja o quadro com a representação de um conjunto de sólidos geométricos e responda às questões que se seguem.



a) Quais das figuras do quadro acima representam prismas?

_____

b) Quais das figuras representam pirâmides?

_____

c) Quantos vértices tem a figura "D"?

_____

d) Quantas arestas tem a figura "A"?

_____

e) O que é uma aresta?

_____

f) O que é um vértice?

_____

4- Os números são usados para contar, medir, ordenar e codificar. Observe cada cena e escreva para que os números estão sendo usados:

_____

_____

_____



_____

_____ _____

5- Resolva os problemas a seguir.

a) Os meninos da turma estão na fila para jogar a bola de basquete na cesta. Mateus está antes do 15º e depois do 13º. Qual é a ordem dele na fila?

b) O primeiro dia da semana é o domingo. Qual é a posição do sábado?

_____

c) Se na sua turma o seu número de chamada é 18, qual é o número ordinal que representa a sua posição na chamada?

_____

d) Em relação à ordem alfabética, qual é a 10ª letra?

_____

6- Calcule mentalmente.

500 + 400 = _____ 300 + 200 = _____

700 + 100 = _____ 400 + 200 = _____

7- Pense e escreva o que se pede.

a) O maior número par de três algarismos. ☐

b) O menor número ímpar de dois algarismos. ☐

8- Veja a quantidade aproximada de passageiros que viajaram para alguns dos estados do nordeste, nesta semana, por uma companhia aérea de São Paulo.

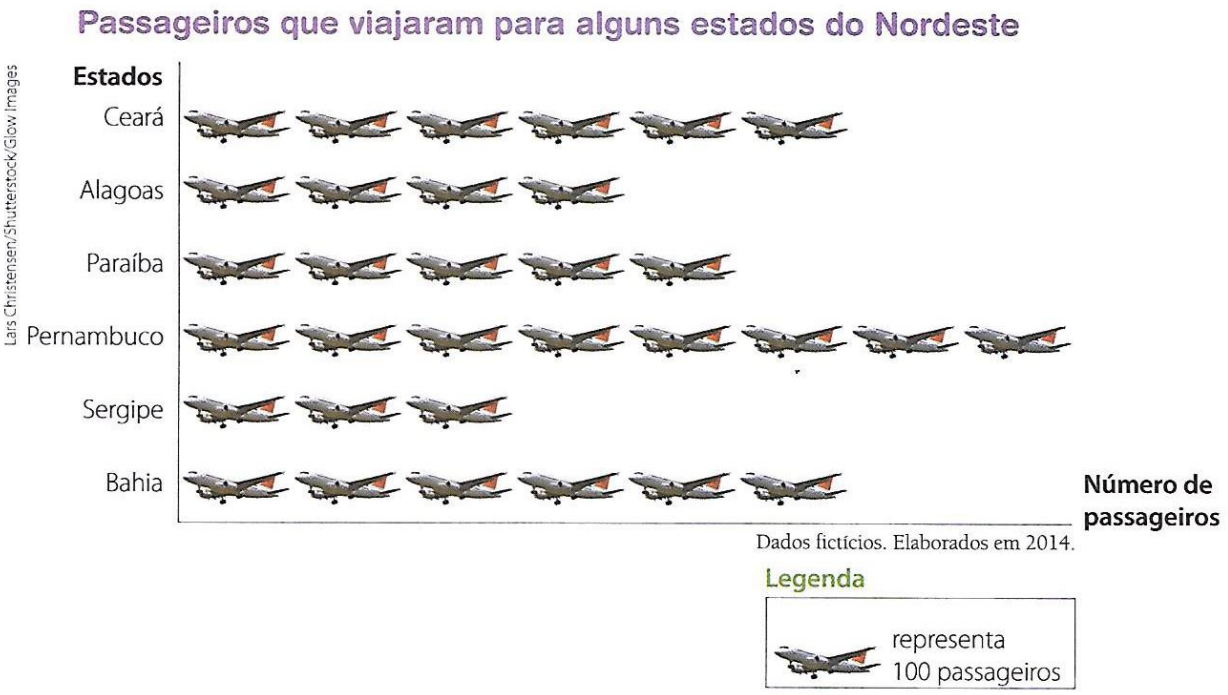

a) Qual estado do Nordeste foi mais visitado por passageiros que embarcaram por essa companhia aérea? Quantos viajaram para lá?

_____

b) Qual estado recebeu menos passageiros? Quantos viajaram pra lá?

_____

c) Quantos passageiros viajaram a mais para a Bahia que para Alagoas?

_____

d) Quantos passageiros viajaram a mais para Pernambuco que para Sergipe?

_____

e) Qual estado do Nordeste foi mais visitado por passageiros que embarcaram por essa companhia aérea?

_____

_____

f) Qual estado recebeu menos passageiros? Quantos viajaram para lá?

_____

_____

g) Quantos passageiros viajaram a mais para a Bahia que para Alagoas?

_____

h) Quantos passageiros viajaram a mais para Pernambuco que para Sergipe?

_____

cálculos

9- Observe as quantias, escreva os valores e responda às questões.



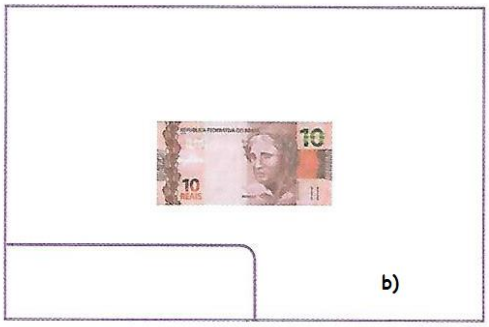







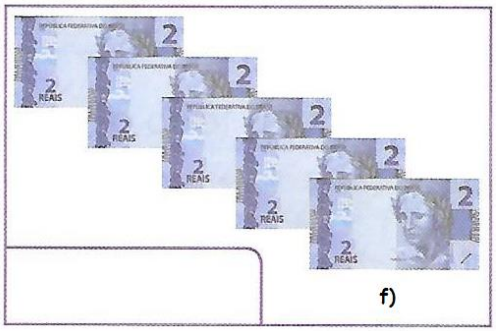



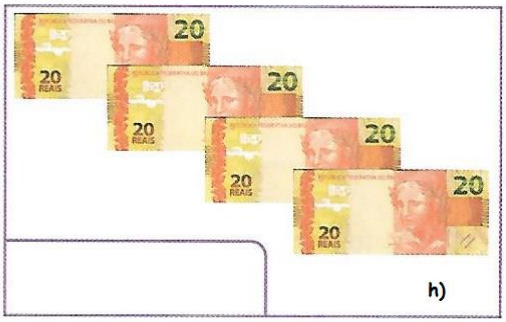

a) Qual é a diferença entre os valores dos itens C e D?

_____

b) Quantos teremos se juntarmos os valores dos itens A e E?

_____

c) Junte os valores dos itens B, F e H:

_____

d) Qual é o total de 4 vezes a quantia do item "A"?

_____

10- Complete os números do quadro e responda as questões abaixo.

241				245					
						257			
	262							269	
		273			276				
	282								290
							298		

a) Qual é o maior número do quadro? _____

b) Antes do 250 vem o _____

c) Qual número está entre o 243 e 245?_____

d) Pinte de AZUL os números maiores que 291.

e) Qual é o décimo primeiro número deste quadro? _____

f) Qual número está antes do 250, depois do 247 e não é o 249? _____

g) Qual é o primeiro número da terceira linha?_____

h) Qual número está depois do 273, antes do 276 e não é o 274? _____

i) Quais são as centenas exatas que vêm antes e depois dos números deste quadro?

_____ e _____

12- Complete a cruzadinha:



1) A soma de 100 com 12.

2) A diferença entre 90 e 20.

3) O antecessor de 191.

4) O sucessor de 19.

5) A soma de 300 com 507.

6) O número 700 tal como se lê.

7) A diferença entre 153 e 103.

8) A soma de 45 com 35.

9) A diferença entre 927 e 914.

10) Número ímpar maior que 15 e menor que 19.

Beijinhos, com carinho, das tias Bia, Kênia e Luciana.